اضغط للعودة للفهرس الذكي

سلطنة عُمان
وزارة التربية والتعليم

المديرية العامة للتربية والتعليم بمحافظة ظفار

امتحان نهاية الفصل الدراسي الأول – الدور الاول – الفترة المسائية - لمادة الرياضيات

الصف السابع - للعام الدراسي: ١٤٤٥هـ - ٢٠٢٣ / ٢٠٢٤م

- زمن الامتحان: ساعة ونصف.
- الاجابة في الدفتر نفسه.
- الدرجة الكلية للامتحان : ٤٠ درجة.
- عدد صفحات اسئلة الامتحان: (٧ صفحات)
- لا يسمح باستخدام الالة الحاسبة.

أقرأ التعليمات الاتية في البداية:

- اجب عن جميع الاسئلة في الفراغ المخصص في ورقة الاسئلة.
- وضح كل خطوات الحل في دفتر الاسئلة.

الصفحة	الدرجة		التوقيع بالاسم	
	بالأرقام	بالحروف	مصحح اول	مصحح ثاني
١				
٢				
٣				
٤				
٥				
٦				
٧				
٨				
٩				
١٠				
المجموع			جمعه	مراجع الجمع

المدرسة	
اسم الطالب/ة	
الصف	

https:// nz.sa/vQYHm موسوعة أ.عمر العزري https:// nz.sa/nxQbf

المادة: الرياضيات – الصف: السابع - امتحان الفصل الدراسي الاول – الدور الاول - للعام الدراسي ٢٠٢٣/٢٠٢٤م

١	حدد العبارة الصحيحة والخاطئة بوضع علامة (✓) ، (✗) أمام كل منها فيما يلي سعة الزجاجة تساوي ٢ لتر ( ) طول القلم يساوى ٢ ملم ( )	[١]
٢	حوط على الاجابة الصحيحة: الكسر $\frac{١}{٣}$ يكافئ: $\frac{٣}{٦}$ $\frac{٥}{٢٥}$ $\frac{٤}{١٦}$ $\frac{٥}{١٥}$	[١]
٣	اكتب ناتج فك الاقواس: ٣(٢س + ٥)	[١]
٤	قرب كل عدد عشري في كلا مما يلي الي درجة الدقة المحددة: ٢٧,٣٨ ≃ ..... (الى اقرب عدد كامل) ٢٣٥,٥٩١ ≃ ..... (الى منزلة عشرية واحدة) ٦٨,٢٥٣ ≃ ..... (الى منزلتين عشريتين)	[٢]
الدرجة	٥	يتبع / (٢)

https:// nz.sa/vQYHm موسوعة أ.عمر العزري https:// nz.sa/nxQbf

٥	حوط على الإجابة الصحيحة: العامل المشترك الاكبر(ع م ك) بين العددين: ١٢ ، ٨ هو ٤ ٦ ٨ ٢٤	[١]
٦	اكتب عددا في المستطيل ليصبح الناتج صحيحا: ١٣,٧٣ - ☐ = ١١,٢٩	[١]
٧	اكتب الاعداد المفقودة في المربعات التالية: ٣٥ ÷ ٨ = ☐ ٣/☐	[٢]
٨	احسب مساحة الشكل المركب المقابل 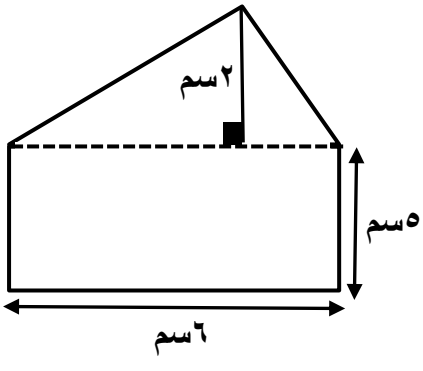 وضح خطوات الحل هنا	[٣]

الدرجة	٧	يتبع / (٣)

https:// nz.sa/vQYHm موسوعة أ.عمر العزري https:// nz.sa/nxQbf

المادة: الرياضيات – الصف: السابع - امتحان الفصل الدراسي الاول – الدور الاول - للعام الدراسي ٢٠٢٣/٢٠٢٤م

٩	ظلل ٦٠ % من الشكل المقابل: 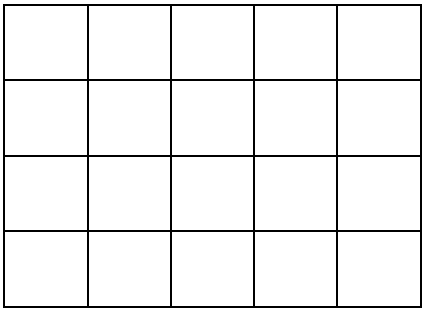	[١]
١٠	أوجد ناتج ما يلى: $\frac{١}{٣}$ من ١٥ سم يساوى ..... $\frac{٣}{٤}$ من ١٦ ريال يساوى	[٢]
١١	حوط على الإجابة الصحيحة: قيمة ك التي يمكن التعويض بها في العبارات: ك + ١٠ ، ٤ك – ٥ لنحصل على نفس الاجابة ٨ ٥ ٤ ٢	[١]
١٢	حوط على الإجابة الصحيحة: ناتج العملية: ٨,٢٥ × ٦ يساوى ٤٩٥ ٠,٤٩٥ ٤٩,٥ ٤,٩٥	[١]
١٣	اكتب قيمة: $\sqrt{٣ \times ٢٧}$	[١]
الدرجة	٦	يتبع / (٤)

https:// nz.sa/vQYHm موسوعة أ.عمر العزري https:// nz.sa/nxQbf

المادة: الرياضيات – الصف: السابع - امتحان الفصل الدراسي الاول – الدور الاول - للعام الدراسي ٢٠٢٣/٢٠٢٤م

١٤	في الشكل المجاور قياس (أ) يساوي ..... 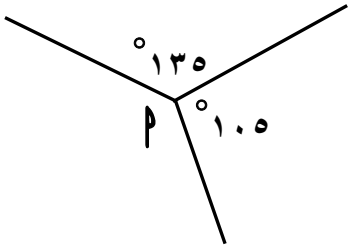 	[١]
١٥	يفكر محمد في عدد ما (س) اكتب العبارة الجبرية التي تعبر عن اضافة ٣ للعدد ثم ضرب الناتج في ٤	[١]
١٦	اكتب الكسر المظلل في الشكل المجاور في صورة عدد كسري	[١]
١٧	اكتب الاعداد المفقودة فى الشكل المقابل والذي يمثل كل عدد منها ناتج جمع العددين في الصف الأعلى 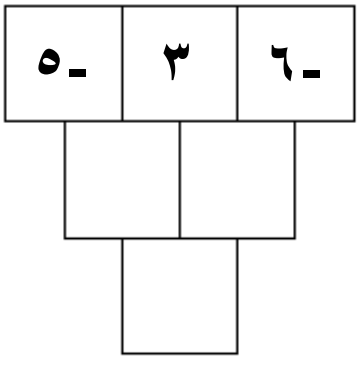 	[٢]
الدرجة	٥	يتبع / (٥)

١٨ ضع علامة > او < بين الكسور في كل زوج مما يلي: [١]

$\frac{١}{٤}$ ☐ $\frac{٣}{٨}$

$\frac{٤}{٥}$ ☐ $\frac{٥}{٧}$

١٩ اكمل الجدول التالي : [٢]

اوجد قيمة ٤٠ ٪ في كلا من الكميات التالية

(تم اجابة واحدة كمثال)

٥٠ ريال عماني	٢٠ كجم	٣٥ شخص	٨٥ عام
.....	.....	١٤	.....

٢٠ في الشكل المجاور [٢]

احسب قيمة ك

وضح خطوات الحل هنا

الدرجة	٥	يتبع / (٦)

https:// nz.sa/vQYHm موسوعة أ.عمر العزري https:// nz.sa/nxQbf

٢١	اكمل الفراغات التالية بتحويل القياسات الي الوحدات المطلوبة: ٥,٥ طن × ☐ = ٥٥٠٠ كغم ٥٥٠ مل ÷ ١٠٠٠ = ☐ لتر	[١]
٢٢	من الشكل المجاور اوجد مساحة شبة المنحرف 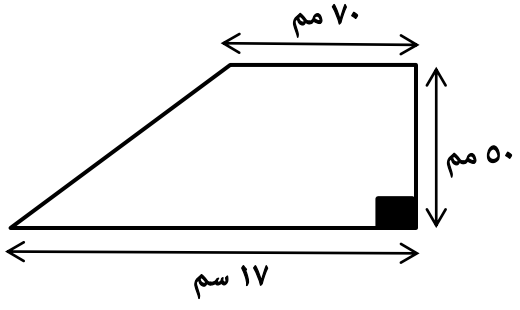 سم٢	[١]
٢٣	في الشكل المجاور : $\overline{\text{أب}} = \overline{\text{أد}}$ أحسب قياس كلا من الزوايا التالية 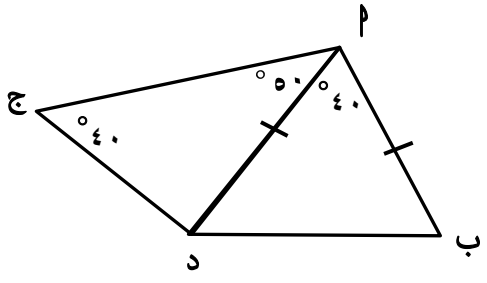 (أ ب د) = ... (ب د ج) = ...	[٢]
٢٤	حوط على الإجابة الصحيحة: مثلث طول قاعدته = ٨ سم والارتفاع المناظر = ٢٠ ملم فإن مساحته تساوي: ٨٠ سم٢ ٨٠ ملم٢ ٨ ملم٢ ٨ سم٢	[١]
الدرجة	٥	

https:// nz.sa/vQYHm موسوعة أ.عمر العزري https:// nz.sa/nxQbf

المادة: الرياضيات – الصف: السابع - امتحان الفصل الدراسي الاول – الدور الاول - للعام الدراسي ٢٠٢٣/٢٠٢٤م

٢٥	اكمل عملية القسمة المجاورة: 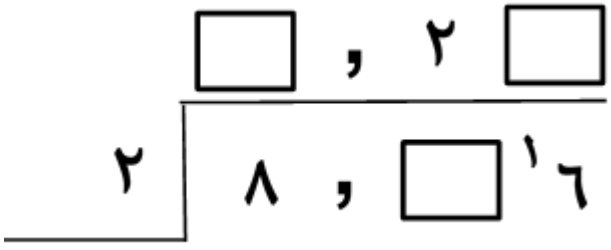	[٢]
٢٦	أكمل كلا مما يلي من الاعداد الموجودة في الإطار المجاور: مضاعف للعدد ٥ ..... مضاعف للعدد ٤ ..... مضاعف للعدد ٦ ..... ٢٦١٥٤ ٢٦١٥٥ ٢٦١٥٦ ٢٦١٥٧	[٣]
٢٧	رجل كتلته ١٢٠ كغم ، وقد نجح في انقاص كتلته بنسبة ١٥ ٪ تقول سلمى ان كتلته الجديدة ١٠٢ كغم . هل سلمى على صواب فسر ذلك؟	[١]
٢٨	شارك سعيد ومحمد في مسابقة رمي القرص، وقد حقق سعيد مسافة قدرها ١٨,٤٥٠ متر وحقق محمد ضعف مساحة سعيد. فإن مجموع المسافة التي حققها كلا من سعيد ومحمد تكون ..... متر	[١]

الدرجة	٧	انتهت الاسئلة

https:// nz.sa/vQYHm موسوعة أ.عمر العزري https:// nz.sa/nxQbf

المديرية العامة للتربية والتعليم بمحافظة ظفار

نموذج إجابة امتحان نهاية الفصل الدراسي الأول – الدور الاول – الفترة المسائية - مادة :الرياضيات الصف : السابع

العام الدراسي ١٤٤٥هـ - ٢٠٢٣/٢٠٢٤م

المـــــادة: الرياضيات	**الدرجة الكلية: (٤٠) درجة**	**تنبيـــــــه: نموذج الإجابة في (٥) صفحات.**

رقم الصفحة	رقم المفردة	هدف التعلم	الهدف التقويمي	مستوى الصعوبة	الاجابة	الدرجة	ارشادات
١	١	7Ml1	معرفة	منخفض	(✓) (✗)	١	يحصل الطالب علي صفر اذا أجاب إجابة واحدة فقط
١	٢	7Nf1	معرفة	منخفض	$\frac{٥}{١٥}$	١	
١	٣	7Ae4	معرفة	منخفض	٦س + ١٥	١	
١	٤	7Np3	معرفة	منخفض	٢٧ ٢٣٥,٦ ٦٨,٢٥	٢	درجتان للإجابات الثلاثة كامله درجة واحدة لإجابتان صحيحتان صفر عدا ذلك
					مجموع الدرجات	٥	

https:// nz.sa/vQYHm موسوعة أ.عمر العزري https:// nz.sa/nxQbf

٢	٥	7Ni2	معرفة	منخفض	٤	١	
٢	٦	7Nc11	تطبيق	منخفض	٢,٤٤	١	
٢	٧	7Nf3	تطبيق	منخفض	٣٥ ÷ ٨ = $\frac{٣}{٨}$ ، ٤	٢	درجة لكل مربع
٢	٨	7Ma2	تطبيق	منخفض	مساحة المستطيل = ٦ × ٥ = ٣٠ سم^{٢} مساحة المثلث = ٣ × ٢ = ٦ سم^{٢} مساحة الشكل = ٣٠ + ٦ = ٣٦ سم^{٢}	٣	إذا اوجد الطالب الناتج مباشرة يحصل علي درجة واحدة
					مجموع الدرجات	٧	
٣	٩	7Nf6	تطبيق	منخفض	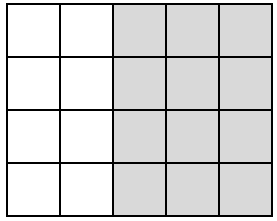	١	الدرجة كاملة لتظليل أي ١٢ مربع
٣	١٠	7Nf5	استدلال	منخفض	٥ سم ، ١٢ ريال	٢	درجة : لكل اجابة صحيحة
٣	١١	7Ae1	استدلال	منخفض	٥	١	
٣	١٢	7Nc13	معرفة	متوسط	٤٩,٥	١	
٣	١٣	7Ni4	معرفة	متوسط	٩	١	

https:// nz.sa/vQYHm موسوعة أ.عمر العزري https:// nz.sa/nxQbf

		مجموع الدرجات				٧	
٤	١٤	7Gs5	معرفة	متوسط	١٢٠°	١	
	١٥	7Ae4	معرفة	متوسط	٤(س + ٢)	١	تراعى الاجابات الصحيحة الاخرى
	١٦	7Nf6	معرفة	متوسط	٣ ١/٦	١	
٤	١٧	7Ni1	معرفة	متوسط	٦- ، ٣ ، ٥- ٣- ، ٢- ٥-	٢	درجتان :الإجابة صحيحة بالكامل درجة : عددين صحيحين صفر عدا ذلك
		مجموع الدرجات				٥	
٥	١٨	7Nf4	تطبيق	متوسط	١/٤ > ٣/٨ ٤/٥ < ٥/٧	١	يحصل الطالب علي صفر اذا أجاب إجابة واحدة فقط
٥	١٩	7Nf8	تطبيق	متوسط	٥٠ ريال عماني: ٢٠ ٢٠ كجم: ٨ ٣٥ شخص: ١٤ ٨٥ عام: ٣٤	٢	درجتان : كل الاجابات صحيحة درجة : اجابتين صحيحتين صفر عدا ذلك

٥	٢٠	7Ae8	تطبيق	متوسط	٢ك + ٢٠ = ٢٤ ٢ك = ٢٤ - ٢٠ ٢ك = ٤ ك = ٢ سم	٢	تكوين المعادلة بشكل صحيح يعطى الطالب درجة إذا اوجد الطالب الناتج مباشرة يحصل علي درجة واحدة
					مجموع الدرجات	٥	
٦	٢١	7Nc10	تطبيق	متوسط	١٠٠٠ ٠,٥٥	١	
٦	٢٢	7Ma2	استدلال	متوسط	٦٠ سم٢	١	
٦	٢٣	7Gs6	استدلال	متوسط	أ ب د = ٧٠° ، ب د ج = ١٦٠°	٢	درجة : لكل زاوية صحيحة
٦	٢٤	7Ma2	معرفة	مرتفع	٨ سم٢	١	
					مجموع الدرجات	٥	
٧	٢٥	7Nc3	معرفة	مرتفع	٨ ، ٢ ، ٤ ١٦ ، ٥ ، ٨ ، ٢	٢	درجتان :جميع الاعداد صحيحة درجة : عددان صحيحان صفر عدا ذلك

https:// nz.sa/vQYHm موسوعة أ.عمر العزري https:// nz.sa/nxQbf

٧	٢٦	7Ni2	تطبيق	مرتفع	مضاعف للعدد ٥ هو ٢٦١٥٥ مضاعف للعدد ٤ هو ٢٦١٥٦ مضاعف للعدد ٦ هو ٢٦١٥٤	٣	كل سؤال بدرجة
٧	٢٧	7Nf2	استدلال	مرتفع	١٢٠ × ١٥٪ = ١٨ كغم الكتلة الجديدة = ١٢٠ - ١٨ = ١٠٢ كجم	١	
٧	٢٨	7Nc11	استدلال	مرتفع	مجموع المسافات = ٥٥,٣٥٠ متر	١	
					مجموع الدرجات	٧	

نهاية نموذج الاجابة

https://nz.sa/vQYHm موسوعة أ.عمر العزري https://nz.sa/nxQbf

دمج امتحانات ٢٠٢٣م الرسمية

الصف: السابع المادة: رياضيات

تجميع: أ.عمر بن منصور بن ناصر العزري

مدرسة: أبوالأسود الدؤلي بنزوى

الصف	الرابط	امسح الكود
فيديوهات تعليمية	اضغط هنا	اضغط هنا
الموسوعة الشاملة	اضغط هنا	اضغط هنا
١ الأول	اضغط هنا	اضغط هنا
٢ الثاني	اضغط هنا	اضغط هنا
٣ الثالث	اضغط هنا	اضغط هنا
٤ الرابع	اضغط هنا	اضغط هنا
٥ الخامس	اضغط هنا	اضغط هنا

الصف	الرابط	امسح الكود
٦ السادس	اضغط هنا	اضغط هنا
٧ السابع	اضغط هنا	اضغط هنا
٨ الثامن	اضغط هنا	اضغط هنا
٩ التاسع	اضغط هنا	اضغط هنا
١٠ العاشر	اضغط هنا	اضغط هنا
١١	اضغط هنا	اضغط هنا
١٢	اضغط هنا	اضغط هنا